CONCURSO PÚBLICO

PREFEITURA MUNICIPAL DE SETE LAGOAS – MINAS GERAIS

CADERNO DE PROVAS	
CADERNO 3	**CARGO:** • **AUXILIAR DE SERVIÇOS GERAIS I**
PROVAS:	• **LÍNGUA PORTUGUESA** • **MATEMÁTICA**

LEIA ATENTAMENTE AS INSTRUÇÕES ABAIXO:

1. Este caderno de provas contém um total de 50 (cinquenta) questões objetivas, sendo 25 de Língua Portuguesa e 25 de Matemática. Confira-o.
2. Esta prova terá, no máximo, 4 (quatro) horas de duração, incluído o tempo destinado à transcrição de suas respostas no gabarito oficial.
3. Não perca tempo em questões, cujas respostas lhe pareçam difíceis, volte a elas se lhe sobrar tempo.
4. Respondidas as questões, você deverá passar o gabarito para a sua folha de respostas, usando caneta esferográfica azul ou preta.
5. Em nenhuma hipótese haverá substituição da Folha de Respostas por erro do candidato.
6. Este caderno deverá ser devolvido ao fiscal, juntamente, com sua folha de respostas, devidamente preenchidos e assinados.
7. O candidato só poderá se ausentar do recinto das provas após 1 (uma) hora contada a partir do efetivo início das mesmas.
8. Você pode transcrever suas respostas na última folha deste caderno e a mesma poderá ser destacada.
9. O gabarito oficial da prova objetiva será divulgado no endereço eletrônico www.fumarc.org.br, dois dias depois da realização da prova.
10. A comissão organizadora da FUMARC Concursos lhe deseja uma boa prova.

FUMARC CONCURSOS

Prezado(a) candidato(a):

Coloque seu número de inscrição e nome no quadro abaixo:

Nº de Inscrição	**Nome**

ASSINALE A RESPOSTA CORRETA.

PROVA DE LÍNGUA PORTUGUESA – Cad. 3

Texto 1

Nome sujo atrapalha no mercado de trabalho?

Breno Borges

Manchete nos principais jornais do país destacou uma decisão inédita do Superior Tribunal de Justiça (STJ) na terça-feira 06/08. Decisão do STJ facilita a inclusão de inadimplentes na Serasa. Dentre as diversas mudanças, o entendimento do STJ também exime a Serasa de notificar o devedor da inclusão do nome na lista por meio de carta registrada com aviso de recebimento – agora, pode ser por meio de carta comum.

E para o mercado de trabalho, restrições atrapalham na hora de conseguir o emprego?

Muitos já estão imaginando a justificativa mais ideal para o texto, que é: "Se eu estou desempregado, como posso pagar meus débitos?" Sem dúvida, esta seria a resposta ideal, mas não genérica a todas as situações, pois há dois tipos de inadimplentes, visto pela ótica do mercado de trabalho.

Tipo 01

É o inadimplente que, por diversos motivos particulares, sendo um deles o próprio desemprego, se complicou com seus compromissos financeiros, mas que assume seus débitos e busca de todos os meios uma negociação, para que em um determinado tempo possa honrar seus compromissos.

Tipo 02

É o verdadeiro irresponsável financeiro, que tem conhecimento dos seus débitos, mas não dá a mínima para as negociações e cobranças, muitas das vezes transparece que tem consciência de que vai comprar e propositalmente não pagar.

O que o tipo 02 às vezes não sabe é que, com o decorrer do tempo e o agravamento de seu histórico de inadimplências, ficará transparente para o mercado de trabalho a sua conduta de má-fé com os compromissos financeiros na sociedade, gerando assim uma barreira nos processos seletivos pertinentes a alguns setores e cargos no mercado de trabalho.

Quem mais pode sofrer essas consequências são os candidatos aos cargos e setores gerenciais, administrativos e financeiros, até porque é óbvio o motivo da recusa pelas empresas, se você tem uma conduta irresponsável não administrando sua própria vida financeira, imagina atuando como profissional!

É preciso deixar claro que nenhuma empresa pode discriminar um candidato que possui inadimplência, pois, com certeza, sofrerá as consequências da lei pertinente ao assunto, mas toda empresa pode escolher o perfil ideal dos candidatos que ocuparão seus cargos. Nesse perfil poderão estar inclusas suas responsabilidades como cidadão que honra com seus compromissos financeiros, sendo assim, uma análise e pesquisa responsável sobre a conduta dos seus futuros profissionais é comum.

Se você é do tipo 01, fique tranquilo, o mercado de trabalho também sabe; mas se você é do tipo 02 e pretende evoluir profissionalmente, trate de mudar seus hábitos e busque uma negociação para seus débitos, pois, se ainda não aconteceu, mais cedo ou mais tarde seu histórico de inadimplência que indique irresponsabilidades revelará quem você é para o mercado de trabalho, minguando oportunidades profissionais que você planejou por longos anos.

Para finalizar, a dica de hoje é: Cuide com intensidade das suas responsabilidades financeiras, assim como você cuida do seu aprimoramento profissional, sendo assim terá certeza de suas conquistas nas melhores

oportunidades do mercado de trabalho. Lembre-se, o profissional é um conjunto que envolve toda uma preparação técnica e profissional, sem deixar de lado as melhores características do bom cidadão, o diálogo. A negociação ainda é o melhor caminho para lidar com a situação de modo geral.

BORGES, Breno. **Nome sujo atrapalha no mercado de trabalho?** Disponível em: <http://www.setelagoas.com.br/sete-lagoas/colunistas/breno-borges>. Acesso em: 14 set. 2013 (adaptado).

QUESTÃO 01

O texto tem como objetivo principal

(A) caracterizar os tipos de inadimplentes.
(B) deixar claro que nome sujo atrapalha no mercado de trabalho.
(C) destacar a importância do cuidado que se deve ter com o nome.
(D) tranquilizar os inadimplentes, porque as empresas não têm como impedir sua contratação.

QUESTÃO 02

Segundo o texto, o verdadeiro irresponsável financeiro é aquele que compra

(A) e não paga.
(B) acreditando que poderá pagar.
(C) mesmo sabendo que não vai pagar.
(D) sem se importar se vai pagar ou não.

QUESTÃO 03

De acordo com o texto, a decisão do Superior Tribunal de Justiça foi considerada **inédita** porque

(A) era original e incomum.
(B) era desconhecida e diferente.
(C) era inesperada e extraordinária.
(D) ainda não tinha sido publicada ou impressa.

QUESTÃO 04

Para o autor, os candidatos aos cargos gerenciais, administrativos e financeiros são os que mais podem sofrer consequências de ter nome sujo porque

(A) estão mais sujeitos a subornos e falcatruas nas negociações.
(B) apresentam risco de desvio e apropriação de dinheiro da empresa.
(C) não se pode esperar de quem não gerencia **sua** vida que seja capaz de administrar uma empresa.
(D) sendo descontrolados nos seus gastos e compromissos financeiros, podem expor a empresas a situações desconfortáveis junto à sociedade.

QUESTÃO 05

As palavras **NÃO** estão acentuadas graficamente pelo mesmo motivo em:

(A) consequência, óbvio, inadimplências, irresponsáveis, consciência – paroxítonas terminadas em ditongo.
(B) genérica, diálogo, inédita, débitos, hábitos – proparoxítonas.
(C) mártir, responsável, repórter, fútil, incrível – paroxítonas terminadas em L ou R.
(D) também, já, você, é, sofrerá – oxítonas terminadas em A, E, O, seguidas ou não de S, EM, ENS.

QUESTÃO 06

Dígrafos são duas letras correspondentes a um único som da língua, ao passo que encontros consonantais consistem em duas ou mais letras que correspondem a sons distintos.
Numere os parênteses com (1), se a palavra tiver dígrafo, e com (2), se a palavra tiver encontro consonantal, observando o que está sublinhado.

( ) psicólogo
( ) atrapalham
( ) profissionais
( ) exceder
( ) planejar

A sequência **CORRETA**, de cima para baixo, é:

(A) 1 – 2 – 2 – 1 – 1
(B) 2 – 1 – 1 – 1 – 2
(C) 2 – 1 – 2 – 2 – 1
(D) 2 – 2 – 1 – 2 – 2

QUESTÃO 07

Ditongo é o encontro de dois ou mais sons vocálicos na mesma sílaba.
NÃO há ditongo em:

(A) fique – Guilherme
(B) guarda – quase
(C) língua – frequente
(D) linguística – consequência

QUESTÃO 08

A palavra **NÃO** está escrita corretamente em:

(A) excesso
(B) fúnebre
(C) pécimo
(D) rubrica

QUESTÃO 09

A divisão silábica das palavras **NÃO** está correta em:

(A) de-sem-pre-ga-do
(B) in-a-dim-plên-cias
(C) ne-go-ci-a-ção
(D) pro-fis-sio-nal-men-te

QUESTÃO 10

Há **ERRO** de acentuação gráfica em:

(A) aqui
(B) baú
(C) cajú
(D) saí

QUESTÃO 11

As palavras sublinhadas nas frases estão **corretamente** identificadas, **pela ordem**, **EXCETO** em:

(A) A negociação é o melhor caminho [...] – substantivo – adjetivo – substantivo
(B) É o verdadeiro irresponsável financeiro [...] – substantivo – substantivo – adjetivo
(C) [...] envolve toda uma preparação técnica e profissional [...] – substantivo – adjetivo – adjetivo
(D) Os cargos e setores gerenciais, administrativbos e financeiros [...] – substantivo – substantivo – adjetivo – adjetivo – adjetivo

QUESTÃO 12

As palavras sublinhadas podem ser substituídas pelas indicadas nos parênteses, mantendo o sentido original da frase, **EXCETO** em:

(A) [...] a decisão do STJ exime a Serasa de notificar o devedor [...] – (intimar)
(B) [...] a decisão do STJ exime a Serasa de notificar o devedor [...] – (dispensa)
(C) [...] gerando uma barreira nos processos seletivos pertinentes a [...] – (relativos)
(D) [...] como você cuida de seu aprimoramento profissional [...] – (aperfeiçoamento)

QUESTÃO 13

Antônimos são palavras ou expressões de significação oposta.
As palavras sublinhadas têm seu antônimo indicado corretamente nos parênteses, **EXCETO** em:

(A) [...] até porque é óbvio o motivo da recusa [...] – (visível)
(B) Nenhuma empresa pode discriminar um candidato [...] – (confundir)
(C) Manchete nos principais jornais do país destacou uma decisão [...] – (omitiu)
(D) [...] com o decorrer do tempo e o agravamento de seu histórico [...] – (a melhoria)

QUESTÃO 14

A alteração no emprego dos sinais de pontuação **COMPROMETE** o sentido original das frases em:

(A) O que o tipo 02 às vezes não sabe é que [...]
O que o tipo 02, às vezes, não sabe é que [...]
(B) [...] mas que assume seus débitos e busca de todos os meios uma negociação [...]
[...] mas que assume seus débitos e busca, de todos os meios, uma negociação [...]
(C) [...] para que em determinado tempo possa honrar seus compromissos [...]
[...] para que, em determinado tempo, possa honrar seus compromissos [...]
(D) [...] é o verdadeiro irresponsável financeiro, que tem conhecimento de seus débitos, mas não dá a mínima [...]
[...] é o verdadeiro irresponsável financeiro que tem conhecimento de seus débitos, mas não dá a mínima [...]

QUESTÃO 15

Observe as seguintes palavras:

e___edente – indi___iplinado – e___travagante – a___essório

As lacunas nas palavras acima são preenchidas **corretamente** por

(A) ss – c – s – ss
(B) xc – sc – x – c
(C) c – sc – x – ss
(D) ss – c – s – c

QUESTÃO 16

Observe as seguintes palavras:

rabu___ento – no___ento – berin__ela – sar___ento

As lacunas nas palavras acima são preenchidas **corretamente** por

(A) j – j – g – g
(B) g – g – g – j
(C) j – g – j – g
(D) g – j – j – g

QUESTÃO 17

Observe as seguintes palavras:

bre___a – ___ingamento – bre___ó – fa___ina

As lacunas nas palavras acima são preenchidas **corretamente** por

(A) ch – x – ch – x
(B) ch – x – x – x
(C) x – ch – x – ch
(D) x – ch – ch – x

Texto 2

Brasil, um país emergente

Eduardo de Freitas

O Brasil é um país subdesenvolvido industrializado. Isso significa que o país possui um sistema político-econômico vinculado ao capitalismo. Esse processo promove a apresentação, no país, da maioria das empresas da iniciativa privada que têm como principal finalidade a busca incessante de lucros. Dessa forma, o conjunto de atividades econômicas influencia diretamente na configuração da economia nacional.

A sociedade brasileira, como a maioria dos outros países capitalistas, é dividida em dois grupos distintos. De um lado, a burguesia, conjunto de pessoas que detêm os meios de produção (indústrias, empresas, fazendas, bancos etc.) e que acumulam capitais a partir dos lucros arrecadados em suas propriedades produtivas. Do outro lado fica a classe trabalhadora ou proletária, pessoas que vendem sua força de trabalho em troca de salário.

O Brasil, apesar de ser um país industrializado e capitalista, não se apresenta no centro do capitalismo mundial, pois se enquadra como uma economia dependente e periférica. No entanto, o país pode ser classificado como semiperiferia.

Essas características são provenientes do alto grau de dependência tecnológica e econômica, da fragilidade comercial em relação às grandes potências, da dívida externa, da grande quantidade de empresas multinacionais, da restrita elaboração de novas tecnologias e da grande reprodução de técnicas e tecnologias criadas em países centrais e de uma enorme disparidade social.

O Brasil apresenta economia dependente, apesar disso possui um alto índice de industrialização, com economia diversificada. Isso significa que a produção não se limita à produção agropecuária e à extração de minérios, existe também um complexo e completo parque industrial que produz aviões, automóveis, softwares e muito outros equipamentos modernos.

O Brasil não faz parte do grupo de países com pequenas economias e industrialização modesta, no qual se integram Uganda, Costa do Marfim, Paquistão, Bangladesh, Etiópia, Niger, Mali, Zaire, Bolívia, Haiti, entre outros. Já países como Argentina, México, África do Sul, Tigres asiáticos, Coreia do Sul, Taiwam, Malásia, Hong Kong, Indonésia, Índia e especialmente a China são prováveis potências mundiais.

Disponível em: <http://www.mundoeducacao.com/geografia/brasil-um-pais-emergente.htm>. Acesso em: 14 set. 2013

QUESTÃO 18

Pela leitura do texto 2, percebemos que o autor se propõe

(A) caracterizar o que é um país emergente.
(B) situar o Brasil no contexto econômico mundial.
(C) mostrar que o Brasil ainda é uma economia semiperiférica.
(D) distinguir países subdesenvolvidos de países subdesenvolvidos industrializados.

QUESTÃO 19

Segundo o texto, o Brasil se classifica como periférico porque

(A) apresenta uma economia mais forte do que países como Paquistão e Bolívia, entre outros.
(B) sua economia é concentrada principalmente na produção agropecuária e na extração de minérios.
(C) já possui um parque industrial capaz de produzir aviões, automóveis e equipamentos modernos.
(D) ainda não conseguiu, apesar de suas riquezas e de seu potencial, reduzir a dívida externa, a dependência tecnológica e a disparidade social.

QUESTÃO 20

Graças ao sistema político-econômico vinculado ao capitalismo, o Brasil

(A) conta com um parque industrial complexo e completo.
(B) pode ser considerado uma provável potência mundial.
(C) é procurado pela iniciativa privada desejosa de grande margem de lucro.
(D) conseguiu superar sua fragilidade econômica, que o tornava pouco atrativo.

QUESTÃO 21

O título do texto se justifica porque

(A) o conjunto de suas atividades econômicas visa à busca de incessantes lucros.
(B) a burguesia, por deter os meios de produção, garante o nível de autonomia de que o país necessita.
(C) o país dispõe de tecnologia desenvolvida que lhe garante independência em relação a outros países para os quais exporta.
(D) o país, apesar do nível de dependência da sua economia, apresenta alto índice de industrialização e diversificação econômica.

QUESTÃO 22

Todas as palavras são acentuadas graficamente pelo mesmo motivo, **EXCETO** em:

(A) açaí – país
(B) Etiópia – águia
(C) ruína – graúdo
(D) saúde – Aída

QUESTÃO 23

“O Brasil apresenta economia dependente, apesar disso possui um alto índice de industrialização, com economia diversificada.”

Nessa frase, podemos identificar, **EXCETO**

(A) 1 monossílabo tônico.
(B) 2 adjetivos.
(C) 4 palavras oxítonas.
(D) 5 substantivos.

QUESTÃO 24

A substituição da palavra sublinhada pela que está entre parênteses **ALTERA** o sentido da frase em:

(A) [...] e de uma enorme disparidade social. – (desigualdade)
(B) [...] têm como finalidade a busca incessante de lucros. – (constante)
(C) [...] alto índice de industrialização, com economia diversificada. – (concentrada)
(D) [...] países com pequenas economias e industrialização modesta [...] – (restrita)

QUESTÃO 25

A palavra sublinhada tem sentido **oposto** à que se encontra nos parênteses em:

(A) Do outro lado fica a classe trabalhadora ou proletária [...] – (operária)
(B) [...] possui um sistema político-econômico vinculado ao capitalismo. – (relacionado)
(C) Essas características são provenientes do alto grau de dependência [...] – (resultantes)
(D) Esse processo promove a apresentação, no país da maioria [...] – (impede)

PROVA DE MATEMÁTICA – Cad. 3

INSTRUÇÃO: Em uma pesquisa realizada na cidade de Sete Lagoas, descobriu-se que ali são consumidos três tipos de produtos que vamos denominar de A, B e C. Os resultados dessa pesquisa estão indicados no diagrama abaixo. Observe, pense, descubra e responda às questões **26** a **29**.

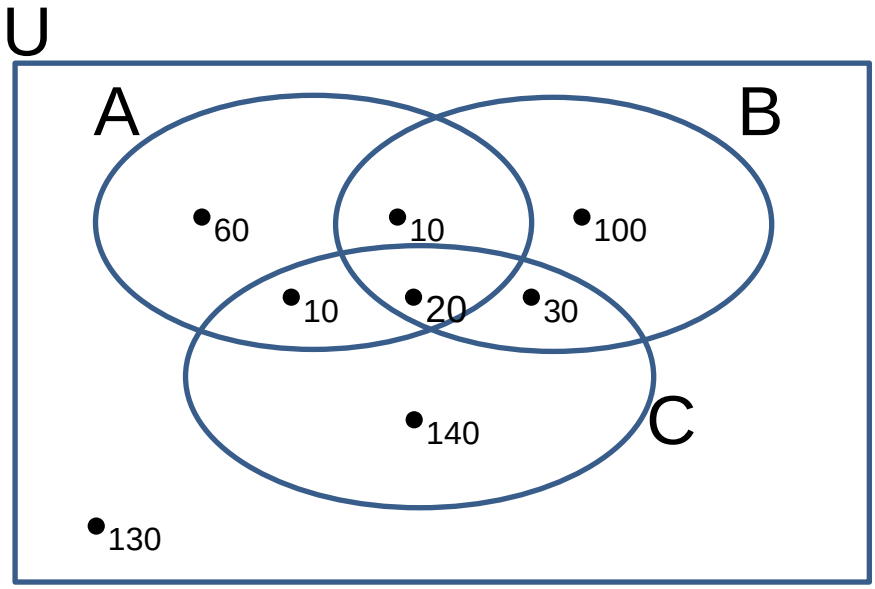

QUESTÃO 26

O Universo de pessoas envolvidas nessa pesquisa é igual a

(A) 200
(B) 370
(C) 430
(D) 500

QUESTÃO 27

Quantas pessoas consomem, **ao mesmo tempo**, dois dos produtos?

(A) 50
(B) 70
(C) 240
(D) 300

QUESTÃO 28

Quantas pessoas consomem os três produtos?

(A) 20
(B) 30
(C) 50
(D) 140

QUESTÃO 29

Quantas pessoas afirmaram que **NÃO** consomem produto algum?

(A) 430
(B) 300
(C) 170
(D) 130

INSTRUÇÃO: Carlos foi fazer uma viagem internacional. No avião, ele descobriu que os passageiros eram de quatro nacionalidades: argentina, brasileira, colombiana e dominicana, nas seguintes proporções: 20% de argentinos, 85% de não colombianos e 70% de não dominicanos. Observe o diagrama e responda às questões 30 a 32.

U= passageiros do avião = **100%**

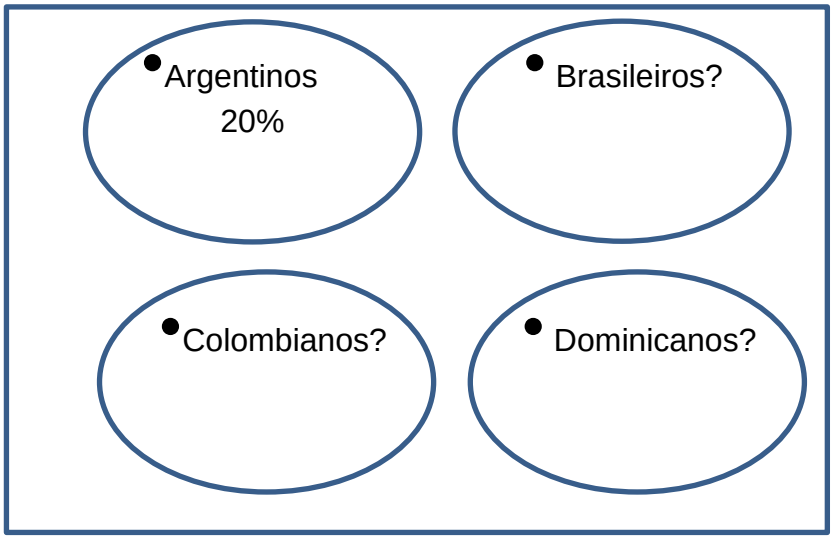

QUESTÃO 30

Qual a porcentagem de passageiros brasileiros?

(A) 15%
(B) 35%
(C) 20%
(D) 30%

QUESTÃO 31

Qual a porcentagem de passageiros dominicanos?

(A) 15%
(B) 20%
(C) 30%
(D) 45%

QUESTÃO 32

Qual a porcentagem de passageiros colombianos?

(A) 15%
(B) 20%
(C) 35%
(D) 40%

QUESTÃO 33

Em 100 jogadores de futebol, 32 jogam também basquete, 13 jogam também futebol de salão e 11 praticam os três esportes. Quantos jogam só futebol? Observem o diagrama para descobrir.

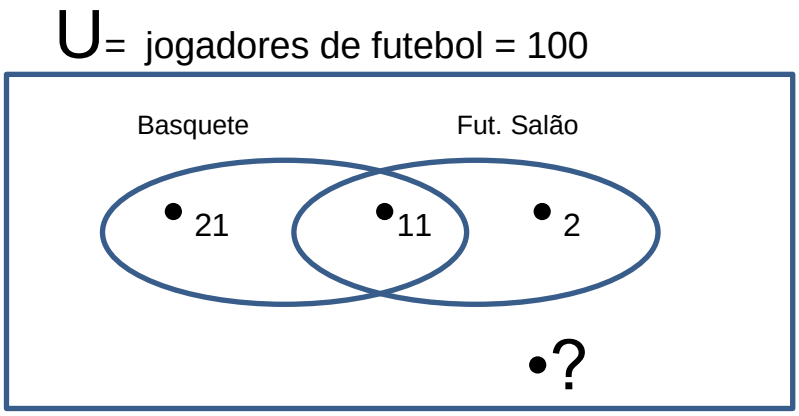

Quantos jogam **apenas** futebol?

(A) 13
(B) 44
(C) 66
(D) 100

QUESTÃO 34

7. 689.523

Qual o número **total** de dezenas que existem no número acima?

(A) Duas
(B) Setecentas e oitenta e nove
(C) Novecentas e vinte e três.
(D) Setecentas e sessenta e oito mil e novecentas e cinquenta e duas.

QUESTÃO 35

2 0 7 1 5 8 3 4

Qual o **maior número** que posso escrever com os algarismos indicados acima?

(A) Setenta e cinco mil, oitocentos e quarenta e três unidades.
(B) Oitocentos e setenta e cinco mil, quatrocentos e trinta e duas unidades.
(C) Dezessete milhões, oitocentos e cinquenta e três mil e cento e vinte unidades.
(D) Oitenta e sete milhões, quinhentos e quarenta e três mil e duzentos e dez unidades.

QUESTÃO 36

Atenção! Observe, faça os cálculos e encontre a resposta para:

70 – { 3 + 9 x [15 : 3 – 2] + (81 : 9)} =

Fazendo as operações indicadas, o **resultado final** é

(A) 19
(B) 31
(C) 39
(D) 49

QUESTÃO 37

Sibele está doente. O médico receitou uma caixa de comprimidos para serem tomados de 6 em 6 horas e um xarope, de 4 em 4 horas. À meia noite, Sibele tomou um comprimido e um xarope juntos. A que horas ela voltará a tomar os dois juntos?

(A) Às 9 horas da manhã.
(B) Ao meio dia.
(C) Às 15 horas.
(D) Às 18 horas.

QUESTÃO 38

Para fazer um macacão para os trabalhadores de uma indústria, a confecção gasta 2, 15 m de brim. Uma peça de brim tem 40m. A confecção terá que fazer 27 macacões. O brim que ela tem vai dar, vai sobrar ou vai faltar? Quanto?

(A) O brim vai dar, os moldes forem invertidos.
(B) O brim vai dar e vão sobrar 30 cm.
(C) Vão faltar 18,05 m de brim.
(D) Vão sobrar 16,40 m de brim.

QUESTÃO 39

Em um auditório, existem 990 poltronas colocadas em fileiras de 22 poltronas cada uma. Quantas fileiras de poltronas existem nesse auditório?

(A) 26
(B) 39
(C) 42
(D) 45

QUESTÃO 40

Jussara acabou de ler a página 85 de um livro de 360 páginas. Para continuar a ler, ela precisa virar a folha. Quantas folhas e quantas páginas tem o livro que Jussara está lendo?

(A) 40 páginas e 360 folhas
(B) 90 folhas e 180 páginas.
(C) 180 páginas e 360 folhas.
(D) 360 páginas e 180 folhas.

QUESTÃO 41

Joana era bem nova quando teve seu primeiro filho. Hoje, ela está com 37 anos e seu filho Pedro, com 19 anos. Quantos anos Joana tinha quando Pedro nasceu?

(A) 16 anos.
(B) 17 anos.
(C) 18 anos.
(D) 20 anos.

QUESTÃO 42

Um caminhão tem capacidade de carregar 130 sacos de cimento por viagem e deve carregar 1.170 sacos de cimento. Outro caminhão pode carregar 125 sacos e deve transportar 1.125 sacos também de cimento. Qual destes caminhões deve fazer mais viagens?

(A) Os dois caminhões juntos farão 15 viagens.
(B) Os dois caminhões farão o mesmo número de viagens.
(C) O caminhão que carrega 125 sacos fará 9 viagens e o outro, 7 viagens.
(D) O caminhão que carrega 130 sacos fará 9 viagens e o outro, 11 viagens.

QUESTÃO 43

A distância da casa de Rafael ao trabalho é de 1,8 quilômetros. Rafael vai todos os dias a pé até o trabalho em companhia de seu amigo João. Eles caminham juntos um terço dessa distância. O restante do caminho ele faz sozinho. Quantos metros Rafael caminha com João e quantos metros caminha sozinho?

(A) Com João, 600 m. Sozinho, 1.200 m.
(B) Com João, 540 m. Sozinho, 1.260 m.
(C) Com João, 500 m. Sozinho, 1.300 m.
(D) Com João, 800 m. Sozinho, 1.000 m.

QUESTÃO 44

Do lixo coletado em uma cidade para reciclagem, $\frac{1}{5}$ foi de vidro e $\frac{2}{3}$ de papel. O que foi coletado em maior quantidade, vidro ou papel? Que fração representa a parte dos outros tipos de lixo?

(A) Foi coletado mais vidro. Para os outros tios de lixo sobra $\frac{1}{3}$.
(B) Foi coletado mais papel. Para os outros tipos de lixo sobram $\frac{4}{5}$.
(C) Foi coletado mais papel. Sobram para os outros tipos de lixo $\frac{13}{15}$.
(D) Papel e vidro foram coletados em igual quantidade. Sobra $\frac{1}{5}$.

QUESTÃO 45

Maria recebe um salário mensal de R$ 2.400,00. Ela gasta $\frac{2}{5}$ com alimentação e paga uma prestação de R$ 120,00 por mês e um aluguel de $\frac{1}{3}$ do salário. Quanto Maria pode economizar por mês?

(A) R$ 150,00.
(B) R$ 450,00.
(C) R$ 520,00.
(D) R$ 650,00.

QUESTÃO 46

Pedro construiu a sua casa e colocou uma caixa d'água com as seguintes medidas: 1 m de comprimento, 1,20 m de altura e 90 cm de largura. Quantos litros de água cabem nessa caixa?

(A) 1.200
(B) 1.080
(C) 1.000
(D) 500

QUESTÃO 47

Para fazer o piso da sala, Pedro gastou 15 m^2 de lajotas. Quais as dimensões da sala da casa de Pedro?

(A) 5 m x 3 m
(B) 4 m x 5 m
(C) 2 m x 7 m
(D) 2,5 m x 4 m

QUESTÃO 48

Fabrício é mais alto que José e José é mais alto que Adão. Qual dos três é mais baixo?

(A) O mais baixo é Adão.
(B) O mais baixo é José.
(C) O mais alto é Fabrício.
(D) Todos são altos.

QUESTÃO 49

Carla e Antônia subiram numa balança. O ponteiro marcou 148 quilos. Carla desceu e o ponteiro marcou 69 quilos. Qual das duas pesa mais? Quantos quilos?

(A) Antônia, 79 quilos.
(B) Carla, 79 quilos.
(C) Antônia, 69 quilos.
(D) Carla, 69 quilos.

QUESTÃO 50

Para economizar água, a prefeitura de Capim Cheiroso fez uma campanha para que cada residência economizasse 3 litros de água por dia. Se essa cidade tem 60.000 habitantes e cada residência corresponde a 5 habitantes, quantas residências existem na cidade e quantos litros de água poderão economizar diariamente?

(A) 1.200 residências e 3.600 litros de economia por dia.
(B) 6.000 residências e 18.000 litros de economia por dia.
(C) 12.000 residências e 36.000 litros de economia por dia.
(D) 50.000 residências e 150.000 litros de economia por dia.

CONCURSO PÚBLICO

PREFEITURA MUNICIPAL DE SETE LAGOAS

EDITAL 02/2012

PARA VOCÊ DESTACAR E CONFERIR O SEU GABARITO

01		11		21		31		41	
02		12		22		32		42	
03		13		23		33		43	
04		14		24		34		44	
05		15		25		35		45	
06		16		26		36		46	
07		17		27		37		47	
08		18		28		38		48	
09		19		29		39		49	
10		20		30		40		50	

FUMARC CONCURSOS

FUMARC
CONCURSOS

Av. Francisco Sales, 540 - Floresta - 30150-220 - Belo Horizonte/MG
(31) 3249-7400 -www.fumarc.org.br / fumarcoconcursos@pucminas.br

Impressão: FUMARC GRÁFICA - (31) 3249-7400